合同な図形（2）

名前

合同な図形では、対応する辺の長さは等しく、対応する角の大きさも等しくなっています。

1． 下の四角形は合同です。右の図に辺の長さや角度をかきましょう。

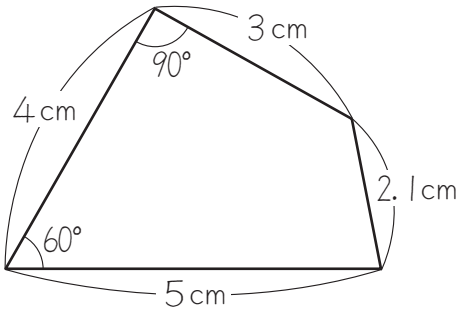

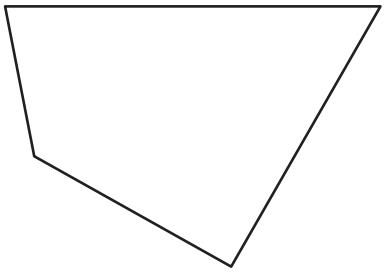

2． 四角形を１本の対角線で、２つの三角形に分けます。合同な三角形ができるのは、どの形ですか。番号をかきましょう。

（　　）

①

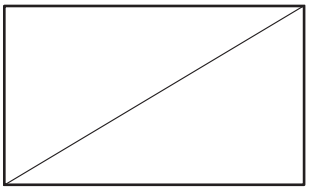

長方形

②

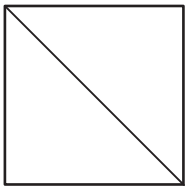

正方形

③

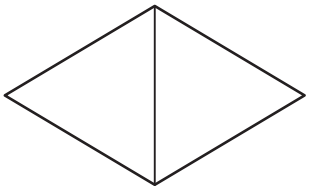

ひし形

④

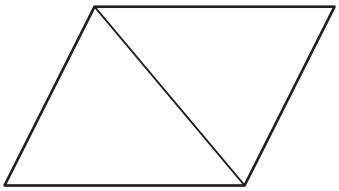

平行四辺形

⑤

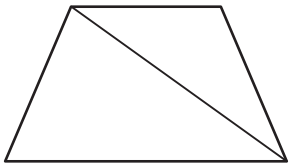

台形

⑥

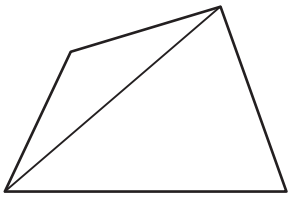

四角形