49 流れる水と土地の変化①

月　　日

点/40点

川の上流、中流、下流のようすをまとめました。（各５点）

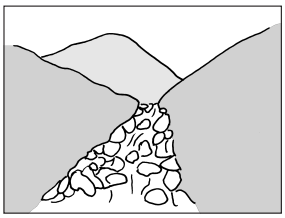

上　流

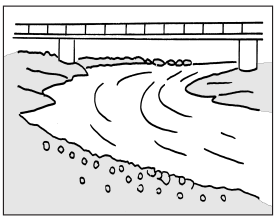

中　流

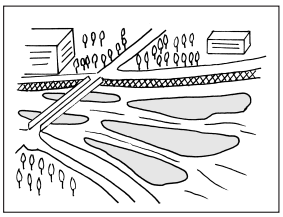

下　流

次の（　　）にあてはまる言葉を［　　］から選びかきましょう。

	上　流	中　流	下　流
流れる水の速さ	流れが（①　　）	流れがゆるやか	流れが（②　　）
川岸のようす	両岸が（③　　）になっている	曲がっているところの内側は川原、外側はがけになっている	中流よりも（④　　）が広がり（⑤　　）もできている
川原の石のようす	大きくて（⑥　　）石がごろごろしている	（⑦　　）小石が多くなる	細かい土や（⑧　　）がたくさん積もる

速い　　おそい　　川原　　中州（なかす）　　がけ
丸みのある　　角ばった　　すな